BANQUE COMMUNE D'ÉPREUVES

Code sujet : 266

Conception : ESCP Europe

HISTOIRE, GÉOGRAPHIE et GÉOPOLITIQUE DU MONDE CONTEMPORAIN

Option Scientifique

Vendredi 28 avril 2017, de 14 h. à 18 h.

L'Union européenne face aux effets déstabilisateurs de la mondialisation.

CARTE *: En utilisant vos connaissances et si nécessaire les documents ci-joints, construisez une carte appuyant et illustrant vos propos. La légende ne devra pas faire plus d'une page. Il est rappelé que* ***la carte est obligatoire****. Elle doit également comporter un titre.*

N.B. :
Tout verbiage doit être évité et il est expressément recommandé de ne pas dépasser huit pages.
Il sera tenu compte des qualités de plan et d'exposition, ainsi que de la correction de la langue.
Il est rappelé que la carte réponse est à remplir (en collant l'étiquette code barre supplémentaire).
Les documents d'accompagnement ci-joints sont essentiellement là pour aider le candidat dans sa réflexion sur le sujet posé et sa représentation cartographique.
Il n'est fait usage d'aucun document ; l'utilisation de toute calculatrice et de tout matériel électronique est interdite.

Sommaire

-Document 1. 31 mars 2010 : Annonce de la fermeture de l'usine de pneumatiques du groupe Continental à Clairoix (Oise), 1120 salariés licenciés

-Document 2. Extrait d'une interview du Président de la Fédération des industries mécaniques (FIM) en mars 2012
(Source : *Les Echos*, 6 mars 2012, p. 15)

-Document 3. La géographie du chômage en France métropolitaine en 2016
(Source : *Images économique du monde 2017*)

-Document 4. La pauvreté en Europe (situation en 2012)
(Source : *Revue Carto, n° 21, 2014, p. 31*)

-Document 5. Le confinement des migrants en Europe et dans les pays méditerranéens en 2011
(Source : *Revue Carto*, n° 14, 2012, p. 19)

-Document 6. L'évolution des rapports de force internationaux
(Source : L'histoire de l'Occident, *Le Monde-La Vie,* 2014, p.161)

-Document 7. Vote « pro-Brexit » en faveur de la sortie de l'U.E. du Royaume-Uni (23 / 06 / 2017)
(Source : *Images économique du monde 2017*)

-Document 8. 20 Janvier 2016, annonce du rachat de 67 % du capital de la société du port du Pirée (Grèce) par le groupe chinois COSCO, pour un montant de 368,5 millions d'euros.

Doc 1. 31 mars 2010 : Annonce de la fermeture de l'usine de pneumatiques du groupe Continental à Clairoix (Oise), 1 120 salariés licenciés

Doc 2. Extrait d'une interview du Président de la Fédération des industries mécaniques (FIM), mars 2012.

« L'objectif n'est pas d'imposer le « fabriquons français » à coups de lois et de réglementations, mais de donner envie de concevoir et de produire en France. »

Jérôme Frantz*, *Les Echos*, 6 mars 2012, p. 15

*Président de la Fédération des industries mécaniques (FIM)

Tournez la page S.V.P.

Doc 3. La géographie du chômage en France métropolitaine en 2016

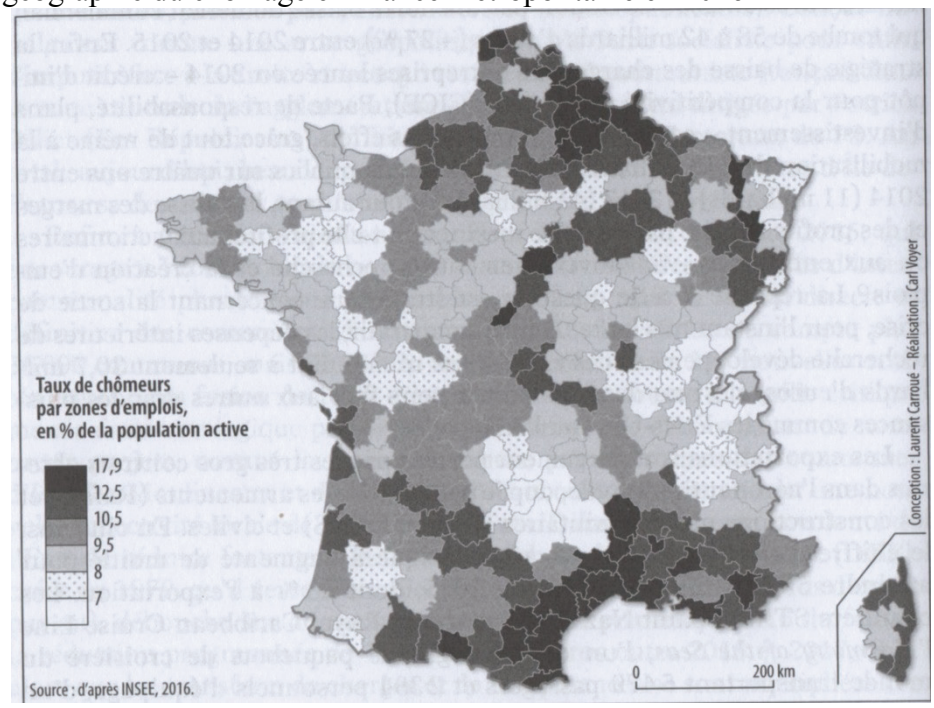

Doc 4. La pauvreté en Europe (situation en 2012).

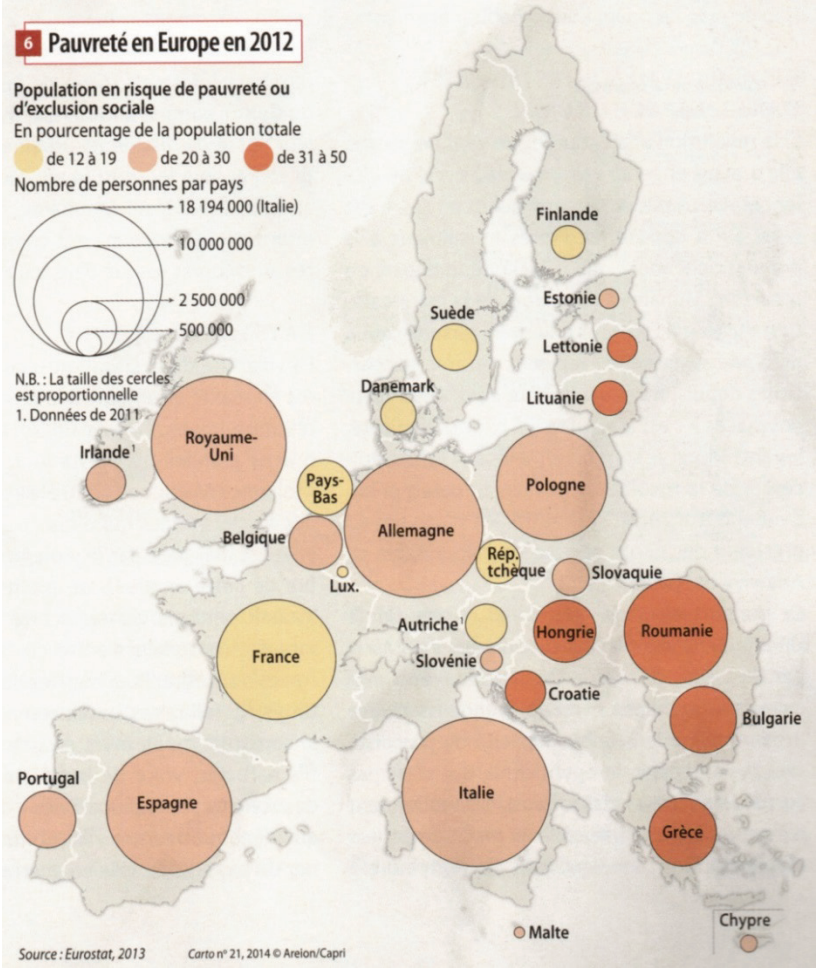

Doc 5. Le confinement des migrants en Europe et dans les pays méditerranéens en 2011

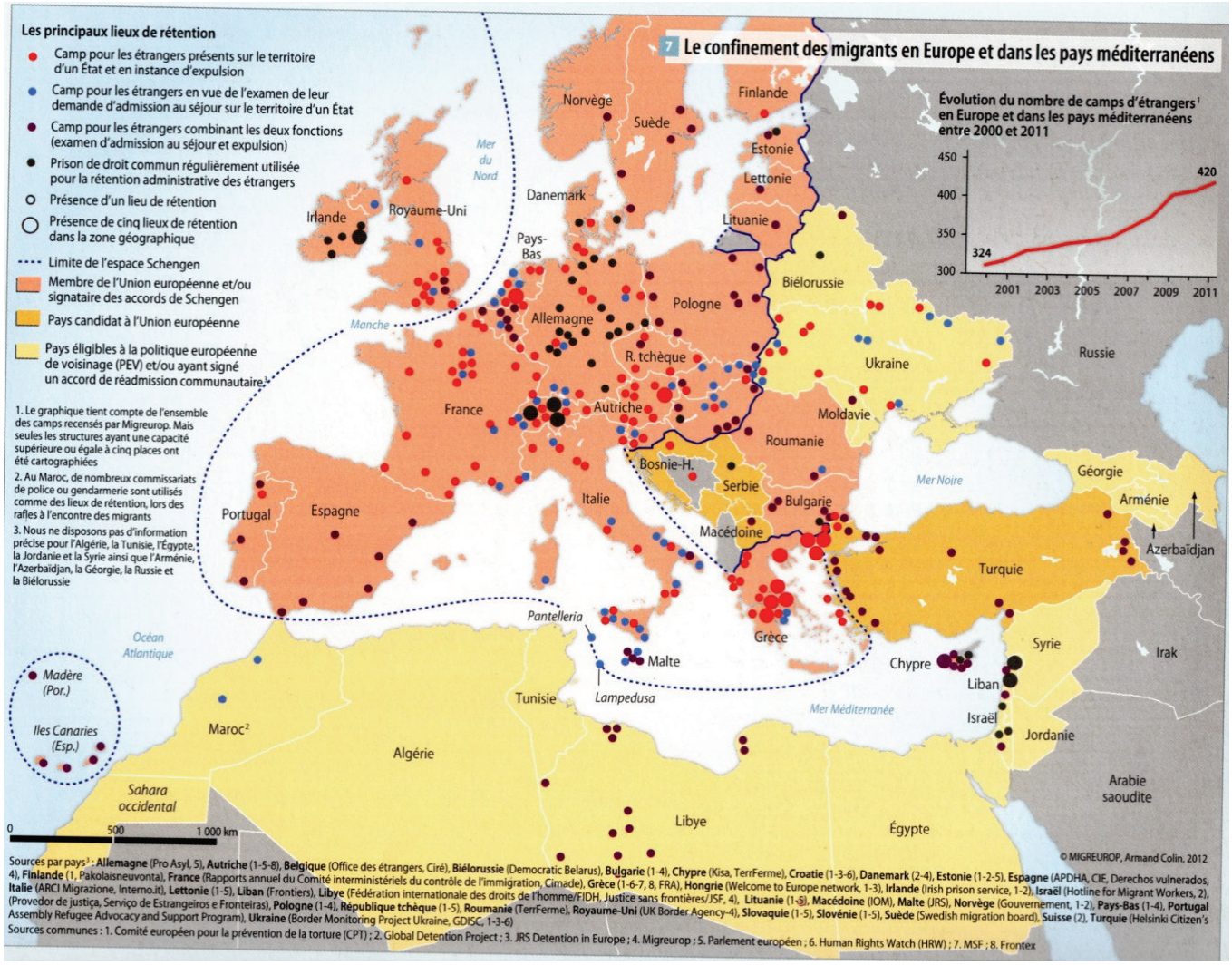

Doc 6. L'évolution des rapports de force internationaux

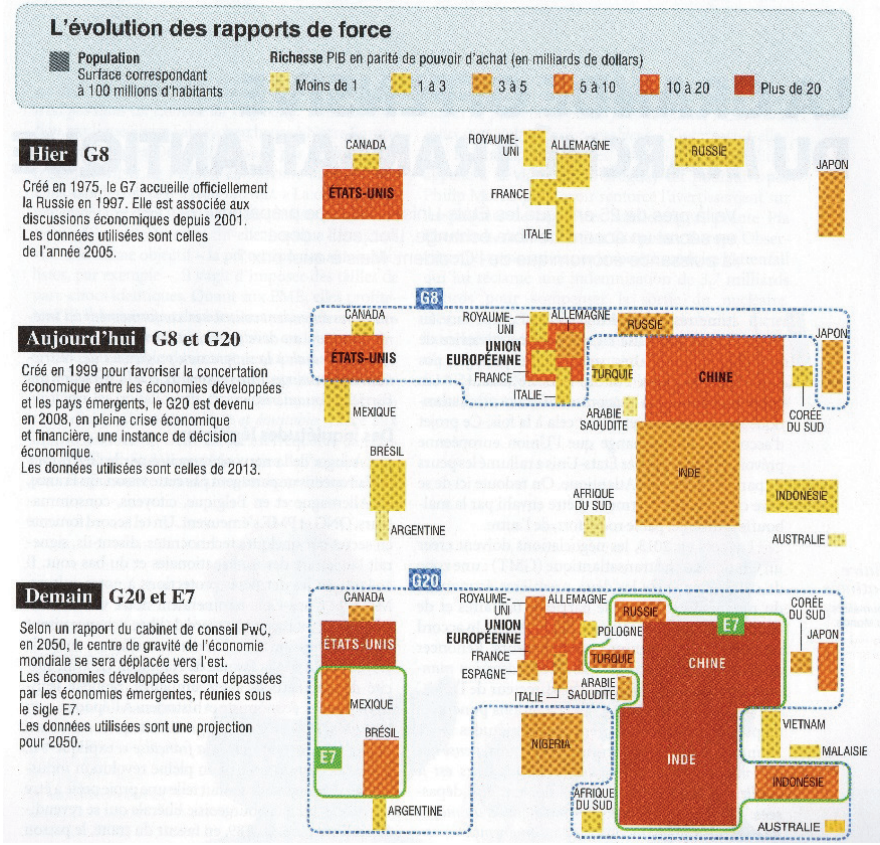

Tournez la page S.V.P.

Doc 7. Vote « pro-Brexit » en faveur de la sortie de l'U.E. du Royaume-Uni (23 / 06 / 2017)

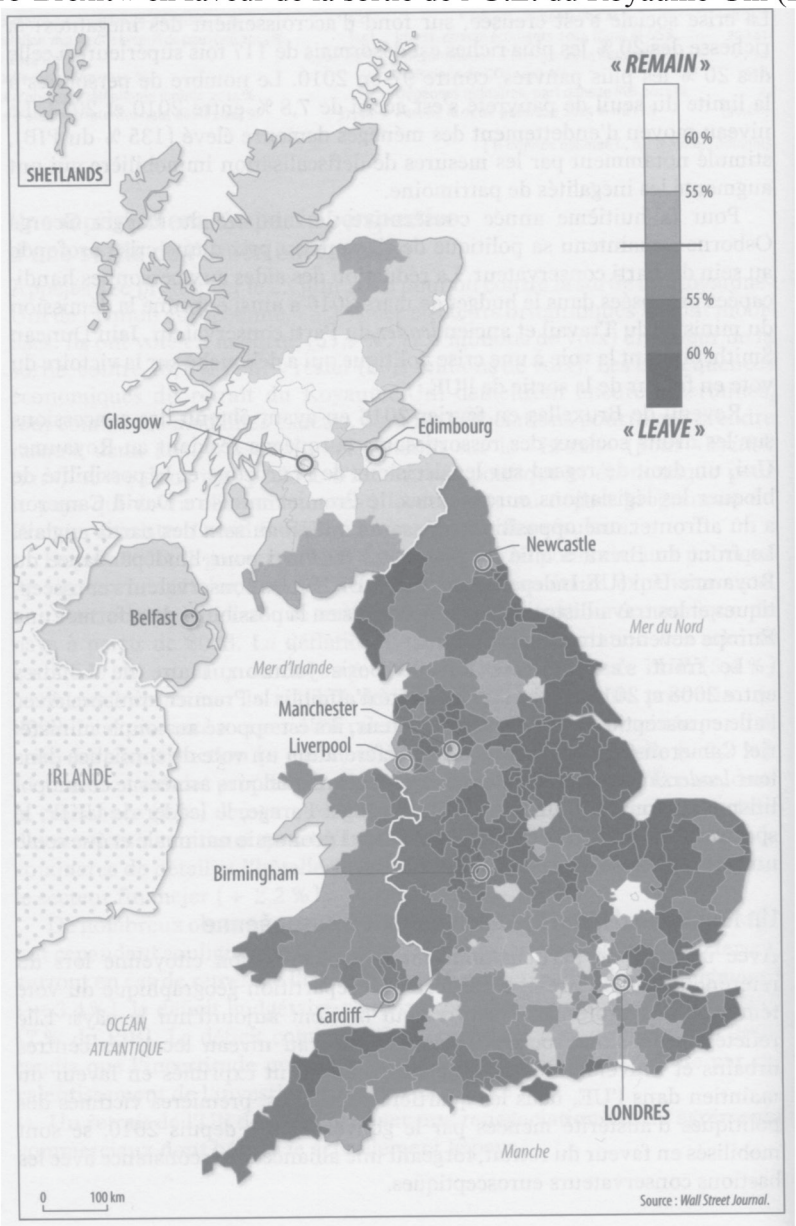

Doc. 8. 20 Janvier 2016, annonce du rachat de 67 % du capital de la société du port du Pirée (Grèce) par le groupe chinois COSCO pour un montant de 368,5 millions d'euros.

NE RIEN ÉCRIRE DANS CE CADRE

Code sujet : 266

CARTE RÉPONSE À RENDRE AVEC LA COPIE

B

NE RIEN ÉCRIRE DANS CE CADRE

Titre:

Légende :

NE RIEN ÉCRIRE DANS CE CADRE

Légende (suite) :

Coller ci-dessous l'étiquette code barre correspondant à l'épreuve

NE RIEN ÉCRIRE DANS CE CADRE